Prénom :_____ Date:_____

Mesure : le périmètre

Je comprends

Le périmètre d'un polygone est la somme des longueurs de ses côtés

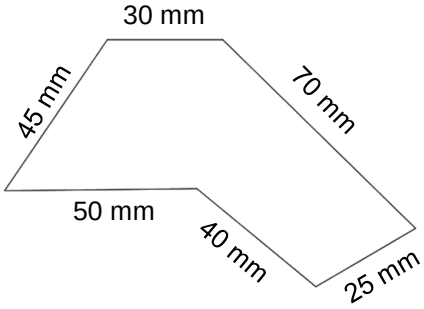

Ce polygone a 6 côtés. Son périmètre est :
30 + 70 + 25 + 40 + 50 + 45 = **260 mm**

On dit aussi que c'est **26 cm**

Rappel :
1 cm = 10 mm

1 Calcule le périmètre des différents polygones (attention aux unités)

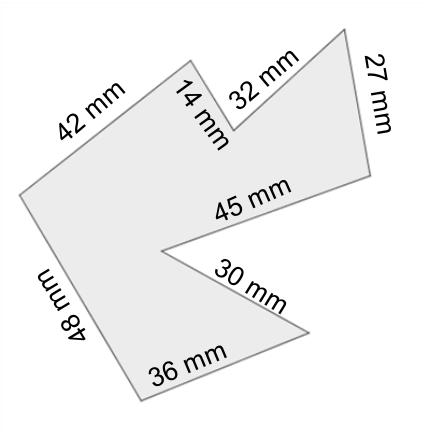

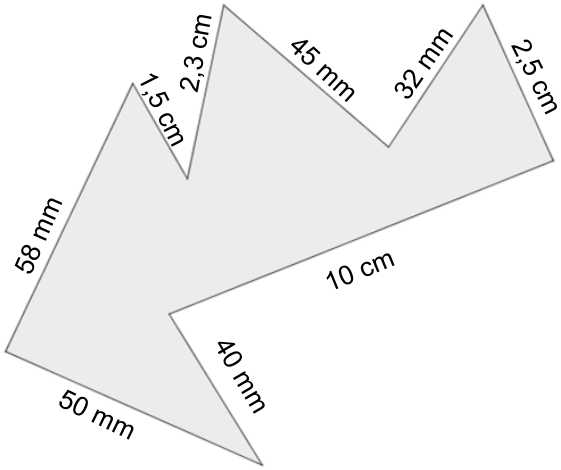

Calcul :

Le périmètre est de _____

Calcul :

Le périmètre est de _____

2 Monsieur Lapin a installé un grillage autour de son potager.

Quelle longueur de grillage a-t-il utilisé ?

Représentation du potager

Calcul(s) :

Phrase réponse :

crevette.eklablog.com